15

Université de Bejaia
Faculté des Sciences Exactes
Département de Chimie

Nom :
Prénom :
Groupe :

Interrogation N° 1 de Chimie organique 2

1. Quels hydrocarbures halogénés peut-on utiliser pour préparer, par la méthode de Würtz, le 2-méthylbutane ?



2. Quel est le produit formé par la réaction du 2-méthylbut-1-ène avec HBr ?

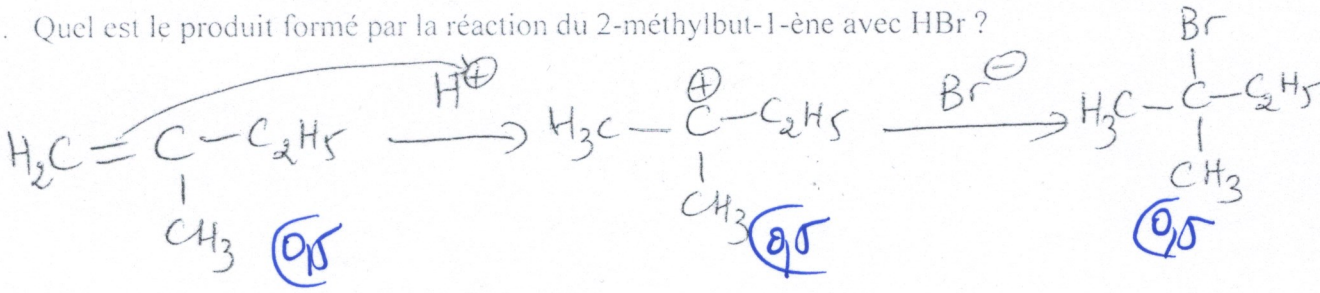

3. Quel est le produit formé par la réaction du 2-méthylbut-1-ène avec Br_2 ?

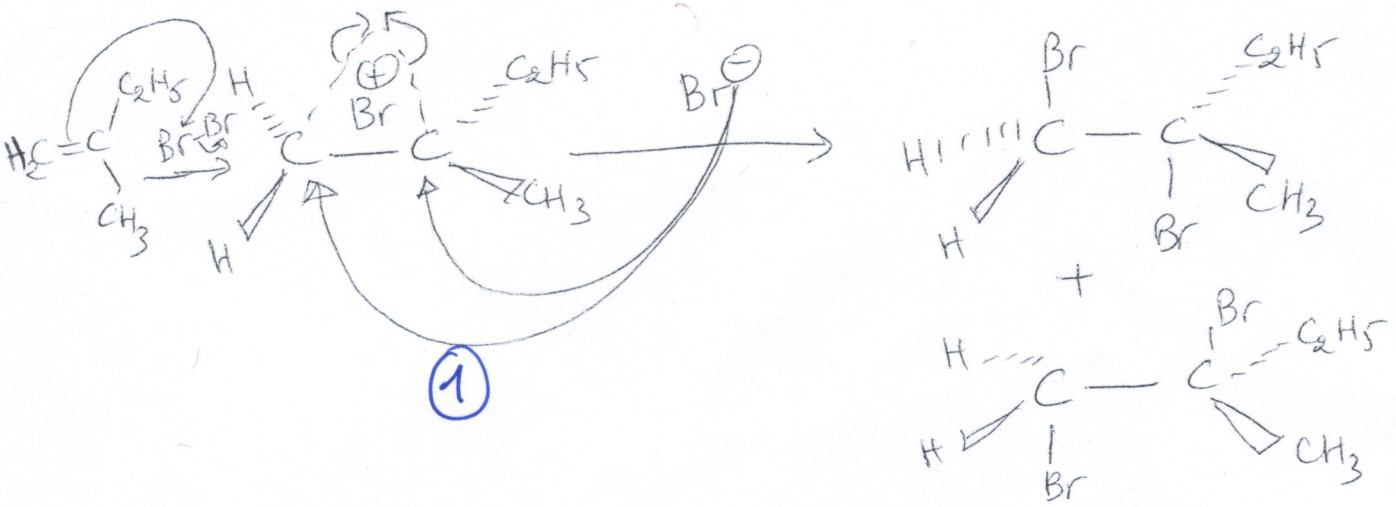

ou bien :

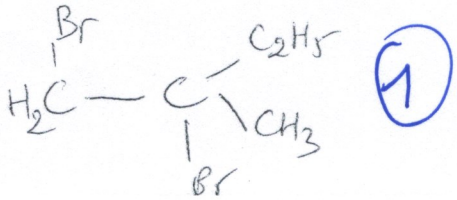

sans représentation spatiale.